2021-2022年浙教版数学六年级上册第三单元《圆的周长和面积》单元测免费试题带答案和解析

1. 选择题 _____

硬币上、下两个面都是（ ）。

A.长方形 B.正方形 C.圆

2. 选择题 _____

将该图形沿虚线对折可以得到的图形是（ ）

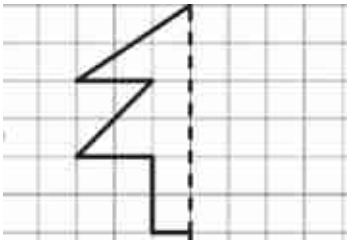

A.正方形 B.一棵树 C.三角形

3. 选择题 _____

圆有（ ）条对称轴。

A. 1 B. 2 C. 4 D. 无数

4. 选择题 _____

下图中，共有（ ）个平行四边形。

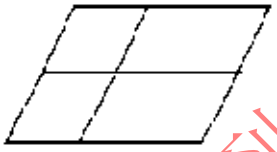

A.4 B.6 C.9

5. 选择题 _____

用（ ）号小印章可以印出△。

A. B. C.

6. 判断题 _____

图  中共有2个长方形。（_____）

7. 判断题 _____

圆的所有半径都相等，所有直径都相等。（_____）

8. 判断题 _____

两端都在圆上的线段，就是直径。（_____）

9. 判断题 _____

r＝2时，圆的周长与面积相等。（_____）

更多资料到官网：http://www.wuliaojz.com
官方公众号：物料家族