四川一年级数学课时练习（2022年上半年）网上考试练习

1. _____

选一选．

是由 组成的．（ ）

A. 4个 B. 4个

2. _____

看图所示，计算教室面积的正确列式是（ ）

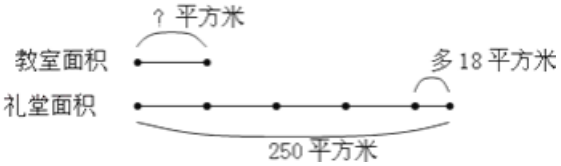

A. （250+18）÷4 B. 250÷4﹣18

C. （250﹣18）×4 D. （250﹣18）÷4

3. _____

某网点办理公共自行车借车卡，第一天办出30张（如下图所示），那么第二天办出的大约比第一天多（ ）张．

A. 30 B. 90 C. 60

4. _____

根据线段图列出的算式是（ ）

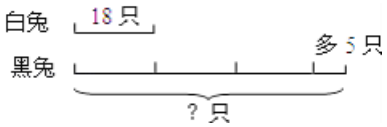

A. 18×3+5 B. 18×3﹣5 C. （18﹣5）÷3

5. _____

看图解答，正确的是（）

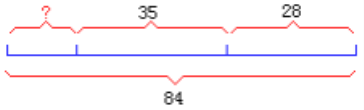

A. 49 B. 31 C. 21 D. 56

6. _____

看图填数．

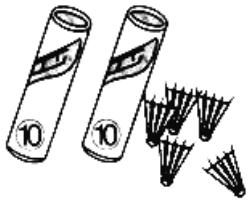

个十和 个一

算一算，填一填。(从7＋9起，按→方向填)

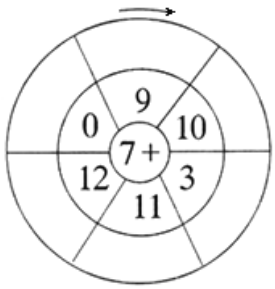

13. _____

数一数、填一填、算一算。

实验小学二（2）班课程表

一　二　三　四　五

数学语文数学美术语文

语文数学语文数学数学

语文语文思品音乐美术

思品体育劳动语文体育

音乐英语活动语文队会

活动阅读　　科技

（1）在语文的格子里划“√”，在数学的格子里划“○”。

（2）数一数，语文课有 节；数学课有 节；

（3）算一算，语文课和数学课一共有多少节？

14. _____

看图回答

□○□=□(支)