2022年七年级地理上半期期中考试网络考试试卷

1. 选择题

读经纬网图，完成下列问题。

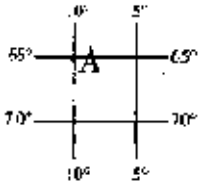

【1】【1】A点的经纬度是（ ）

A. 10°W、65°S B. 10°W、65°N

C. 10°E、65°S D. 10°E、65°N

【2】【2】根据半球的划分，A点位于（ ）

A. 西半球、北半球 B. 东半球、北半球

C. 东半球、南半球 D. 西半球、南半球

2. 选择题

下图为昼夜半球示意图。读图完成下面小题。

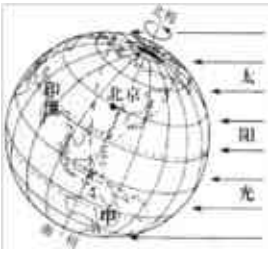

【1】图示日期是 （ ）

A. 3月21日 B. 6月22日 C. 9月23日 D. 12月22日

【2】此日，北京 （ ）

A. 昼长夜短 B. 昼夜等长 C. 昼短夜长 D. 出现极昼

【3】北京所在的半球 （ ）

①北半球 ②西半球 ③南半球 ④东半球

A. ①② B. ②③ C. ①④ D. ②④

【4】此时北京太阳已经升起，但印度仍然笼罩在黑夜之中，造成这种时间差异的主要原因是（ ）

A. 地球公转 B. 地球自转 C. 地球是球体 D. 地球不透明

【5】图中甲位于 （ ）

A. 亚洲 B. 欧洲 C. 大洋洲 D. 非洲

3. 选择题

读下图，回答完成下面小题。

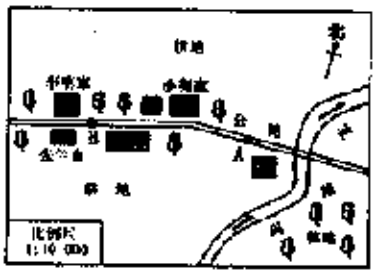

更多资料到官网：http://www.wuliaojz.com
官方公众号：物料家族