# 2022年广东省深圳市中考模拟化学题开卷有益

1. 选择题 _____

下列说法正确的是(　　)

A.氮气用于食品保鲜，酒精作为燃料，钨丝制作白炽灯丝都是利用了他们的化学性质

B.人体中含量较多的元素是氧，碳，氢，氮，铁是地壳中含量最高的金属元素

C.碳酸钠潮解，烧碱在空气中变质都属于化学变化

D.乙醇，葡萄糖都属于有机化合物

2. 选择题 _____

下列装置或操作肯定不能达到实验目的是(　　)

A.测定空气中的氧气的含量 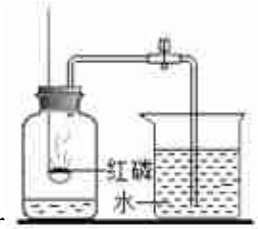


B.探究质量守恒定律 


C.稀释浓硫酸 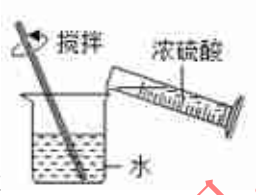


D.熄灭酒精灯

3. 选择题 _____

下列说法中正确的是(　　)

A.冰水混合物，纯净的空气，蔗糖溶液，浓硫酸都属于混合物

B.氯酸钾中，氯元素的化合价为+5价

C.1个H2SO4分子中含1个氢分子

D.C3H6S分子中C、H、S元素质量比为3：6：1

4. 选择题 _____

下列有关化学用语中数字“2”的意义的说法，错误的是（　　）

①3SO2 ②Mg2+ ③CO2 ④$\overset{+2}{Cu}SO_4$ ⑤O2－ ⑥H2O2.

A．表示分子个数的是①

B．表示离子所带电荷数的是②⑤

C．表示化合价数值的是④

D．表示一个分子中含有某种原子个数的是①③⑥

5. 选择题 _____

已知反应前后分子变化的微观示意图如下所示。下列说法正确的是( )

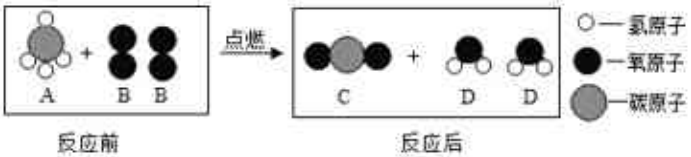


A. B.铁丝在B中燃烧生成黑色四氧化三铁固体

更多资料到官网：http://www.wuliaojz.com
官方公众号：物料家族