江苏2022年八年级地理下半期期中考试网上在线做题

1. 选择题

在经纬网中有两条经线和一条纬线是不用标注东西经或者南北纬它们是 ( )

①0°经线 ②0°纬线 ③180°经线 ④回归线

A. ①②③④ B. ①②③ C. ①②④ D. ②③④

2. 选择题

电视纪录片《第三极》将南极、北极、珠穆朗玛峰合称“世界三极”。此次拍摄任务的宗旨是：关注全球气候变化，提倡全球节能减排，让我们更爱、更珍惜我国共同的绿色家园。

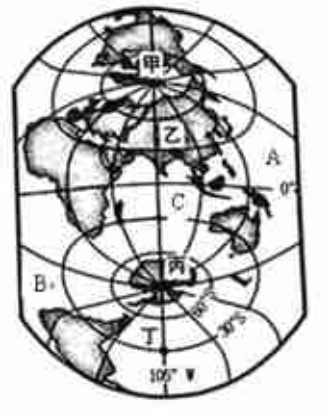

据图文回答下面小题。

【1】“三极”的共同特点是 （ ）

A. 气候严寒 B. 海拔最高 C. 纬度最高 D. 人口众多

【2】图中甲乙丙丁地，位于北极地区的是 （ ）

A. 甲 B. 乙 C. 丙 D. 丁

【3】全球变暖对“三极”共同的影响是 （ ）

A. 雨林破坏 B. 滑坡频发 C. 冰川融化 D. 海面下降

【4】图中丁地的经纬度是 （ ）

A. 105°E，60°N B. 105°E，3 0°N

C. 105°W，60°S D. 105°W，3 0°S

【5】图中A，B，C所处的大洋分别是 （ ）

A. 印度洋、太平洋、大西洋 B. 太平洋、印度洋、大西洋

C. 大西洋、太平洋、印度洋 D. 太平洋、大西洋、印度洋

3. 选择题

下图为我国某地“二分二至”正午太阳光照示意图。图中A、B、C表示“二分二至”正午太阳在天空中的位置，a、b、c是“二分二至”正午太阳光线从房门照射到屋内的对应位置。



“二分二至”正午太阳光照示意图

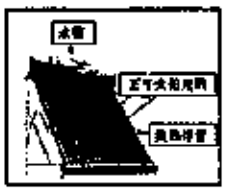

太阳能热水器

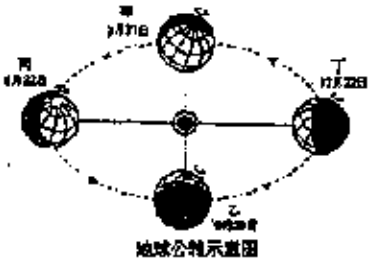

地球公转示意图

结合图回答下面小题。

【1】当地球运动到公转轨道的甲位置时，正午太阳光照射到屋内a、b、c中的（ ）处。

重发资料到官网：http://www.wuliaojz.com 官方公众号：物料家族