湖北省孝感市2022年中考地理无纸试卷完整版

1. 选择题

自然资源是人类赖以生存的物质基础，下列选项中属于非可再生资源的是（ ）

A.阳光 B.磷虾 C.竹林 D.锡矿

2. 选择题

2020年5月22-28日，十三届全国人大三次会议在北京召开。读图完成下面小题。

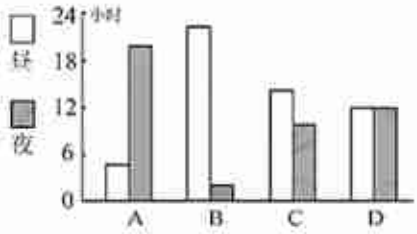

图1

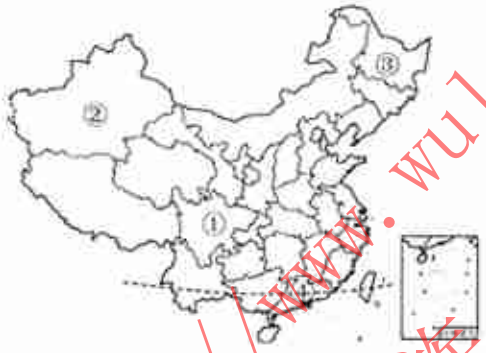

图2

【1】会议期间，北京的昼夜长短情况与图1中最接近的是（ ）

A.A B.B C.C D.D

【2】有代表在交流中表演了变脸特技，并邀请大家去他家乡吃火锅，到高原山地观光，到平原投资兴业。该代表所在省级行政区与图2中标号相符且其简称正确的是（ ）

A.①蜀 B.②新 C.③川 D.④桂

3. 选择题

读图1某地等高线地形图和图2我国四大地理区域图，完成下面小题。

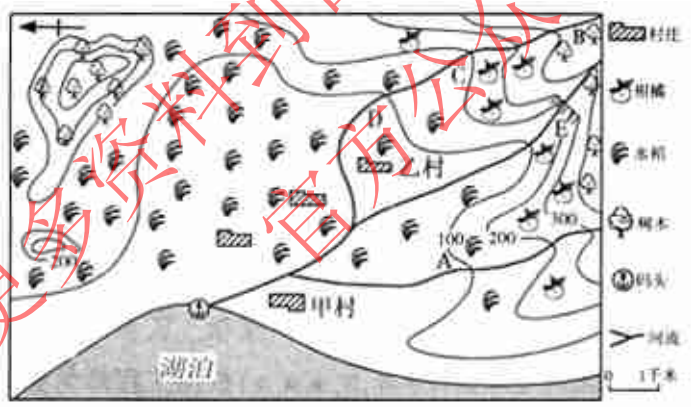

图1

更多资料到官网：http://www.wuliaojz.com 物料家族 官方公众号：