浙江省杭州求是高级中学2021-2022学年高一上学期补考考试试卷 试题及答案

1. _____

读图，完成

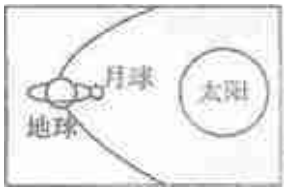

1.图中所示的天体系统有

A.1级　　B.2级　　C.3级　　D.4级

2.地球上存在生命的基本条件不包括

A.有卫星绕转　　B.日地距离适中

C.地球自转和公转的周期适中　　D.地球的体积、质量适中

2. _____

古籍曾记载：公元前28年，“三月乙末，日出黄，有黑气大如钱，居日中央”。 根据此段文字完成

3. 记载中所说的“黑气”是指：

A．太阳黑子　B．耀斑　C．日饵　D．太阳风

4. 当记载中的现象出现时预示着：

A．连年大旱　B．暴雨滂沱　C．风调雨顺　D．太阳活动增强

3. _____

2009年7月22日 （　　上午9时左右（北京时间），千年一遇的日全食自西向东扫过我国长江流域（如图1阴影所示）。图2示意地球公转的轨道，图中甲、乙、丙、丁四点将轨道平均分成四等分。读图完成

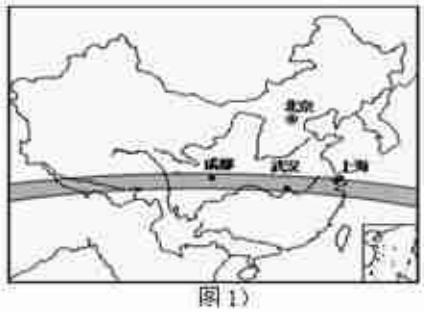

图1）

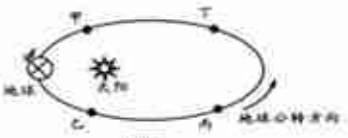

图2

更多资料到官网：http://www.wuliaojz.com
官方公众号：物料家族