2022北京人教版(2019)高中化学高考模拟

1. _____

下列变化过程中不涉及化学反应的是（　）

A．陶瓷的烧制　　B．活字印刷排版术

C．鞭炮和烟火的燃放　　D．司母戊鼎表面出现铜绿

2. _____

下列说法正确的是

A．血红蛋白、牛胰岛素、蚕丝、人造奶油充分水解后均可得到氨基酸

B．李比希燃烧法、钠熔法、铜丝燃烧法、纸层析法都是元素定性分析法

C．测定有机物结构方法较多，如红外光谱、紫外光谱、质谱、核磁共振谱、同位素示踪法等

D．色谱法通常用于分离结构相近、物理性质和化学性质相似的物质，纸层析法就是一种简单的色谱分析法

3. _____

下列曲线表示卤素元素某种性质随核电荷数的变化趋势，正确的是

A. 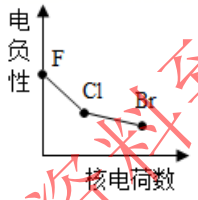

B. 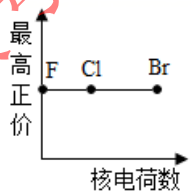

C. 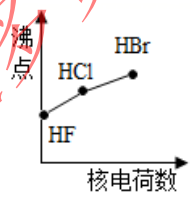

D. 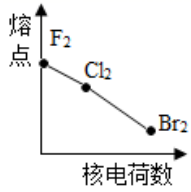

4. _____

设n_A为阿伏伽德罗常数的数值，下列说法正确的是

A．23g Na 与足量H_2O反应完全后可生成n_A个H_2分子

B．1 molCu和足量热浓硫酸反应可生成n_A个SO_3分子

C．标准状况下，22.4L N_2和H_2混合气中含n_A个原子

更多资料到官网：http://www.wuliaojz.com 官方公众号：物料家族